WEEK 16 LES 1
Kommagetallen tot op 0,01

1 Kijk en vul aan.

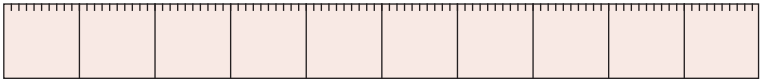

1 m = 10 dm = 100 cm

1 cm = $\frac{1}{10}$ dm = $\frac{1}{100}$ m

1 cm = 0,1 dm = 0,01 m

6 cm = 0,6 dm = 0,06 m

2 Kleur en vul in.

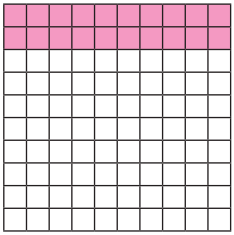

$\frac{2}{10} = \frac{20}{100}$

0,2 = 0,20

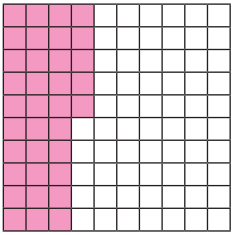

$\frac{35}{100}$

0,35

3 Vul kommagetallen in op de stippen.

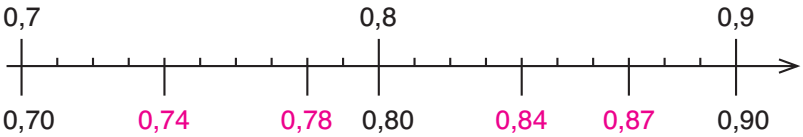

naam: _____

WEEK 16 LES 1
Kommagetallen tot op 0,01

1 Vul in.

35 cm = $\frac{35}{100}$ m = 0,35 m

75 cl = $\frac{75}{100}$ l = 0,75 l

58 cent = $\frac{58}{100}$ euro = 0,58 euro

2 Kijk en vul aan.

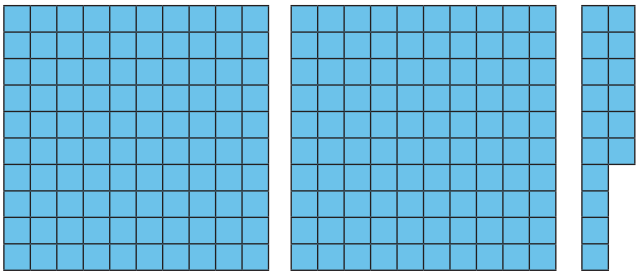

$\frac{100}{100}$ en $\frac{100}{100}$ en $\frac{16}{100}$

↓ ↓ ↓

1 en 1 en 0,16 = 2,16

3 Vul kommagetallen in op de stippen.

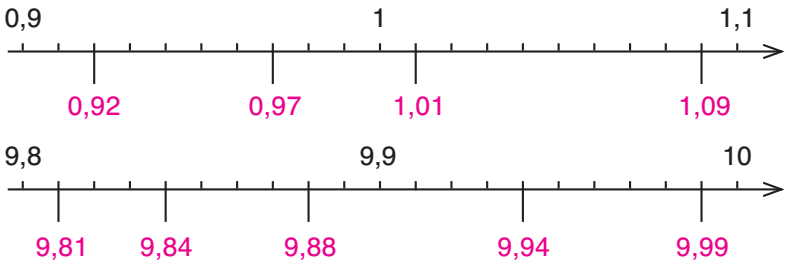

naam: _____

die Keure

WEEK 16 LES 1
Kommagetallen tot op 0,01

KOMP@S

1 **Noteer de kommagetallen op de stippen.**

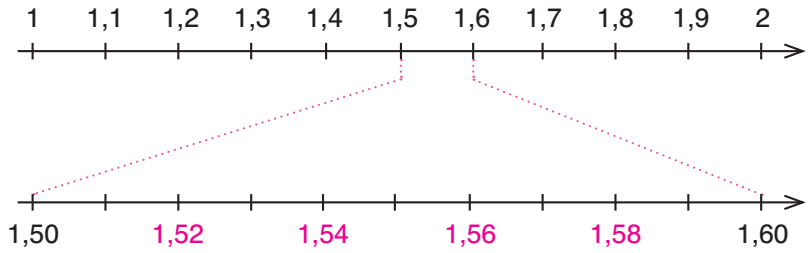

2 **Noteer de getallen in de tabel. Vul aan.**

	D	H	T	E	t	h		
1 honderdste of 0,01 →				0	0	1	=	0,01
1 geheel en 15 honderdste →				1	1	5	=	1,15
4 honderdste →				0	0	4	=	0,04
25 honderdste →				0	2	5	=	0,25
6 T 3 E 4 t 7 h →			6	3	4	7	=	63,47

3 **Vergelijk de getallen. Gebruik = of > of <.**

0,01	=	$\frac{1}{100}$	1	<	1,02
0,1	>	0,01	1,2	>	1,02
0,02	<	0,2	1,02	<	2,01

die Keure

naam: _____

WEEK 16 LES 1
Kommagetallen tot op 0,01

KOMPAS

1 **Noteer de kommagetallen op de stippen.**

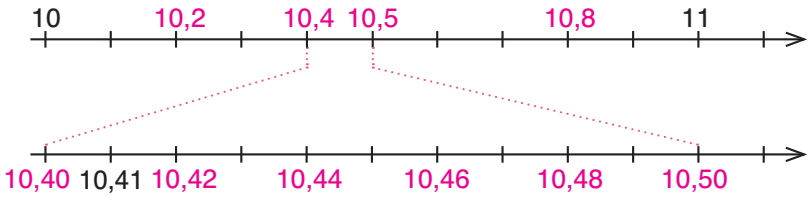

2 **Noteer de getallen in de tabel. Vul aan.**

	D	H	T	E	t	h		
18 honderdste →				0	1	8	=	0,18
8 gehelen 45 honderdste →				8	4	5	=	8,45
4 H 6 E 8 h →		4	0	6	0	8	=	406,08
1 honderdste minder dan 1 geheel →				0	9	9	=	0,99

3 **Rangschik van klein naar groot. Gebruik > of <.**

1,2 0,98 1,71 1,17 1 en $\frac{7}{100}$ $\frac{89}{100}$

$\frac{89}{100} < 0,98 < 1 \text{ en } \frac{7}{100} < 1,17 < 1,2 < 1,71$

4 **Vul kommagetallen tot op 0,01 in.**

8,10 ligt tussen 8,09 en 8,11.

Net voor 12 komt 11,99.

naam: _____

die Keure

1 Kijk en los op.

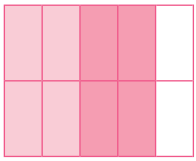

2 x 0,4 = 0,8

0,8 : 2 = 0,4

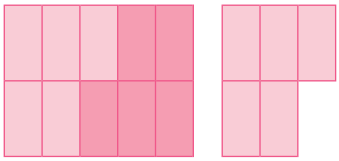

3 x 0,5 = 1,5

1,5 : 3 = 0,5

2 Los op.

2 x 0,3 = 0,6	0,6 : 2 = 0,3	3 x 0,4 = 1,2
4 x 0,2 = 0,8	0,8 : 4 = 0,2	1,2 : 3 = 0,4
2 x 0,5 = 1	1 : 2 = 0,5	10 x 0,2 = 2
7 x 0,1 = 0,7	0,7 : 7 = 0,1	2 : 10 = 0,2
0,7 + 0,2 = 0,9	0,9 – 0,2 = 0,7	1,6 – 1,3 = 0,3
0,8 + 0,2 = 1	1 – 0,2 = 0,8	0,3 + 1,3 = 1,6
0,9 + 0,2 = 1,1	1,1 – 0,2 = 0,9	2,1 + 0,9 = 3
1 + 0,2 = 1,2	1,2 – 0,2 = 1	3 – 0,9 = 2,1

3 Los op. Je mag tussenstappen noteren.

5 x 1,3 = (5 x 1) + (5 x 0,3) = 5 + 1,5 = 6,5

3,4 : 2 = (3 : 2) + (0,4 : 2) = 1,5 + 0,2 = 1,7

4,8 + (2 – 0,8) = 4,8 + 1,2 = 6

naam: _____

1 **Los op.**

5 x 0,8 = 4	1,8 : 3 = 0,6	1,7 + 7,3 = 9
2 x 1,9 = 3,8	4,5 : 5 = 0,9	6,5 + 4,7 = 11,2
10 x 3,4 = 34	45 : 10 = 4,5	3,9 + 6,1 = 10
4 x 1,8 = 7,2	8,6 : 2 = 4,3	2,8 + 4,9 = 7,7
5 x 2,6 = 13	4,8 : 4 = 1,2	5,5 + 5,5 = 11
6 – 3,4 = 2,6	6 x 2,5 = 15	2 : 10 = 0,2
4,1 – 0,8 = 3,3	10 x 3,5 = 35	4 : 5 = 0,8
5,2 – 2,6 = 2,6	4 x 4,5 = 18	9 : 2 = 4,5
8,7 – 5 = 3,7	5 x 7,5 = 37,5	14 : 4 = 3,5
10 – 4,8 = 5,2	2 x 7,5 = 15	21,9 : 3 = 7,3

2 **Los op. Je mag tussenstappen noteren.**

(2,8 + 1,2) x (4 – 1,2) = 4 x 2,8 = 2 x 5,6 = 11,2

(17 : 10) + (3 x 1,9) = 1,7 + 5,7 = 7,4

0,9 + 0,9 + 0,9 + 0,9 + 0,9 = 4,5

3 **Lees en vul in.**

8 brikjes frisdrank van 0,2 l en 1 fles frisdrank van 0,5 l is samen 2,1 l.

Seppe legt 2,6 km af heen en terug naar school. De enkele weg van huis naar school is voor Seppe 1,3 km lang.

naam: _____

die Keure

WEEK 16 LES 3

Vermenigvuldigen tot op 0,1

KOMP@S

Los op en controleer je uitkomst met de zakrekenmachine.

				1,	7	
					8	
x			1	3,	6	~~5~~ ~~1~~

				3,	9	
					6	
x			2	3,	4	~~5~~ ~~2~~

			1	2,	7	
					7	
x			8	8,	9	~~4~~ ~~1~~

			1	5,	8	
					9	
x		1	4	2,	2	~~7~~ ~~5~~ ~~1~~

			2	0,	5	
					8	
x		1	6	4,	0	~~4~~ ~~1~~

			3	4,	7	
					5	
x		1	7	3,	5	~~3~~ ~~2~~ ~~1~~

			4	1,	8	
					7	
x		2	9	2,	6	~~5~~ ~~1~~ ~~2~~

			7	6,	9	
					4	
x		3	0	7,	6	~~3~~ ~~2~~ ~~3~~

			8	0,	7	
					6	
x		4	8	4,	2	~~4~~ ~~4~~

			9	3,	7	
					8	
x		7	4	9,	6	~~5~~ ~~2~~ ~~7~~

			8	2,	3	
					9	
x		7	4	0,	7	~~2~~ ~~2~~ ~~7~~

		1	0	6,	9	
					7	
x		7	4	8,	3	~~6~~ ~~4~~

				1,	6	
				1	2	
x				3	2	~~1~~
			1	6		
			1	9,	2	

				8,	4	
				1	3	
x			2	5	2	~~1~~ ~~2~~
			8	4		
		1	0	9,	2	~~1~~

			1	2,	7	
				2	2	
x			2	5	4	~~1~~ ~~1~~
		2	5	4		
		2	7	9,	4	

naam: _____

1 **Schik de bewerking netjes in het rooster. Los op. Controleer met de zakrekenmachine.**

8 x 650,9 =

	6	5	0,	9
				8
5	2	0	7,	2

9 x 708,4 =

	7	0	8,	4
				9
6	3	7	5,	6

9 x 867,3 =

	8	6	7,	3
				9
7	8	0	5,	7

56 x 87,9 =

		8	7,	9
			5	6
	5	2	7	4
4	3	9	5	
4	9	2	2,	4

87 x 64,9 =

		6	4,	9
			8	7
	4	5	4	3
5	1	9	2	
5	6	4	6,	3

68 x 90,7 =

		9	0,	7
			6	8
	7	2	5	6
5	4	4	2	
6	1	6	7,	6

2 **Lees en noteer de oefening in het rooster. Los op.**

a Het product van de getallen 94 en 76,8 is 7219,2.

b 87 keer 90,5 is 7873,5.

c Vermenigvuldig 84,6 met 79. Je krijgt 6683,4.

a

		7	6,	8
			9	4
	3	0	7	2
6	9	1	2	
7	2	1	9,	2

b

		9	0,	5
			8	7
	6	3	3	5
7	2	4	0	
7	8	7	3,	5

c

		8	4,	6
			7	9
	7	6	1	4
5	9	2	2	
6	6	8	3,	4

naam: _____

die Keure

1 Vul de tijd aan met de seconden.

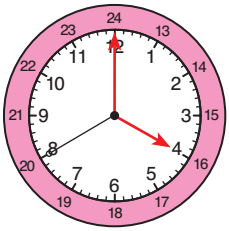

Het is 4 uur en 40 seconden.

04 : 00 : 40

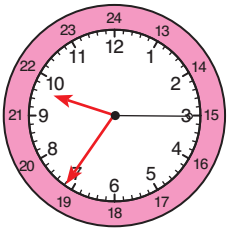

Het is 9 uur 36 minuten 15 seconden.

09 : 36 : 15

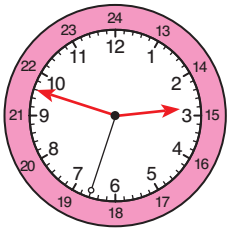

Het is 14 uur 48 minuten 33 seconden.

14 : 48 : 33

2 Bereken het tijdsverschil.

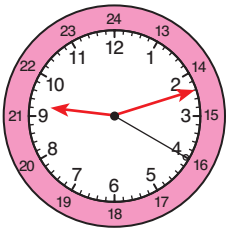

09 : 12 : 20

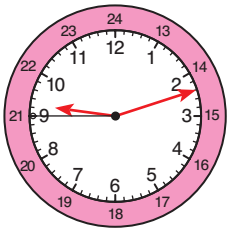

09 : 12 : 45

Het tijdsverschil is (45 – 20 =) 25 seconden.

3 Lees en vul aan.

Van 3 januari tot en met 7 januari is 5 dagen.

Het is nu 12 februari. Over 7 maanden is het 12 september.

Opa is geboren in 1950. Dit jaar wordt hij _____.

naam: _____

1 Bereken.

3/4 uur = 2700 seconden

B 45 x 60 = 450 x 6 = 900 x 3 = 2700

2 Lees en los op.

Tom wint de eerste rit van een ronde in
4 uur 17 minuten en 36 seconden.
Nick is tweede op 1 minuut en 49 seconden van Tom.

V Wat is de totaaltijd van Nick?

B
4 uur 17 min. 36 sec.
\+ 1 min. 49 sec.
} 4 uur 18 min. 85 sec.
↓
1 min. 25 sec.
→ 4 uur 19 min. 25 sec.

A Nick heeft 4 uur 19 min. en 25 sec. nodig. OK

3 Vul aan.

- Het is nu 1 uur 16 minuten en 25 seconden voor middernacht.
  Het is dus 22 : 43 : 35.
- Het is nu 19 januari.
  Over precies 3 weken is het 9 februari.
- Peter is geboren in augustus 1957. Karel wordt in augustus 68 jaar oud.
  Wie is de oudste? _____.
  Hoeveel jaar verschillen ze in leeftijd? _____.

naam: _____

die Keure

Lees en los op.

1 Emma weegt 32 kg, Milan weegt 38 kg en Luna weegt 35 kg.

V Hoeveel is hun gemiddelde gewicht?

G Emma: 32 kg Milan: 38 kg Luna: 35 kg

B 32 + 38 + 35 = 105

105 : 3 = 35

A Hun gemiddelde gewicht is 35 kg. OK

2 De drie vriendinnen Julie, Marie en Zana hebben voor een proef van hoofdrekenen 9/10 en 7/10 en 8/10.

V Hoeveel punten hebben ze gemiddeld behaald?

G 9/10 7/10 8/10

B 9 + 7 + 8 = 24

24 : 3 = 8

A Gemiddeld hebben ze 8 op 10. OK

3 Op vijf opeenvolgende dagen meet Kobe de temperatuur om 14 uur.

ma: 7 °C	di: 10 °C	wo: 8 °C	do: 6 °C	vr: 4 °C

V Wat is de gemiddelde temperatuur voor die 5 dagen?

G zie kadertje

B 7 + 10 + 8 + 6 + 4 = 35

35 : 5 = 7

A De gemiddelde temperatuur is 7 °C. OK

naam: _____

Lees en los op.

1 Ferida weegt 37 kg, Wout weegt 41 kg, Charlotte weegt 46 kg en Lars weegt 42 kg.

V Hoeveel is hun gemiddelde gewicht?

G 37 kg 41 kg 46 kg 42 kg

B 37 + 41 + 46 + 42 = 166

166 : 4 = 83 : 2 = 41,5

A Hun gemiddelde gewicht is 41,5 kg. **OK**

2 De vier vrienden Daan, Tim, Stijn en Nick hebben voor een toets van toepassingen 8/10 en 10/10 en 9/10 en 7/10.

V Hoeveel punten hebben ze gemiddeld behaald?

G $^{8}/_{10}$ $^{10}/_{10}$ $^{9}/_{10}$ $^{7}/_{10}$

B 8 + 10 + 9 + 7 = 34 34 : 4 = 17 : 2 = 8,5

A Ze hebben gemiddeld 8,5 op 10 behaald. **OK**

3 Een huisarts behandelde in 6 dagen 147 patiënten.

V Hoeveel patiënten zijn er gemiddeld per dag?

G 6 dagen → 147 patiënten

B 147 : 6 = (120 : 6) + (24 : 6) + (3 : 6) =

20 + 4 + 0,5 = 24,5

A Er zijn gemiddeld 24,5 patiënten per dag. **OK**

naam: _____

die Keure

WEEK 17 LES 1

Structuur van 0,2 - 0,4 - 0,6 - 0,8 en 1,0
Structuur van 0,25 - 0,50 - 0,75 en 1,00

KOMPAS

1 **Vul aan op de stippen.**

2 **Vul aan.**

	T	E	t	h	
0,6 →		0	6		= 6 t
0,75 →		0	7	5	= 7 t en 5 h

3 **Vul kommagetallen tot op 0,01 in.**

Tussen 0,24 en 0,26 ligt 0,25.

Net voor 1,00 ligt 0,99.

Net na 0,75 komt 0,76.

4 **Lees en vul in.**

0,2 en 0,2 is 0,4.

3 keer 0,2 is 0,6.

0,4 minder dan 1,0 is 0,6.

0,2 meer dan 0,4 is 0,6.

De helft van 1,0 is 0,5.

0,50 en 0,25 is 0,75.

2 keer 0,25 is 0,50 of 0,5.

0,25 minder dan 0,75 is 0,5.

0,25 meer dan 0,75 is 1.

Het dubbel van 0,50 is 1.

die Keure

naam: _____

WEEK 17 LES 1

Structuur van 0,2 - 0,4 - 0,6 - 0,8 en 1,0
Structuur van 0,25 - 0,50 - 0,75 en 1,00

1 Vul de spin aan.

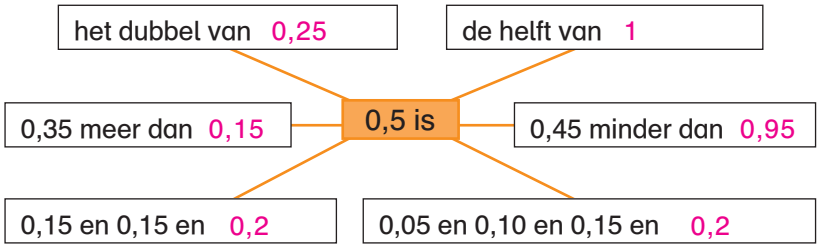

2 Lees en vul in.

Het drievoud van 0,25 is 0,75.

Het viervoud van 0,2 is 0,8.

Het dubbel van 0,4 is 0,8.

De helft van 0,5 is 0,25.

0,35 en 0,45 is 0,8.

5 h minder dan 0,8 is 0,75.

5 h meer dan 0,2 is 0,25.

0,8 is $\frac{4}{5}$ van 1.

0,75 is 3/4 van 1.

15 h minder dan 0,75 is 0,6.

3 Lees en vul aan.

De helft van 1 is evenveel als 2 keer 0,25.

3 keer 0,25 en 2 keer 0,2 is samen 1,15.

0,75 is 0,15 meer dan 3 keer 0,2.

0,75 is 0,05 minder dan 4 keer 0,2.

15 h meer dan 0,25 is 0,4.

naam: _____

die Keure

1 Kijk en los op.

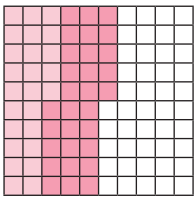

0,25 + 0,30 = 0,55

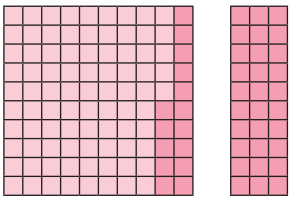

0,85 + 0,45 = 1,30 of 1,3

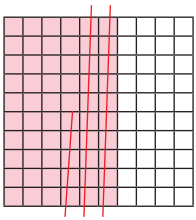

0,60 – 0,25 = 0,35

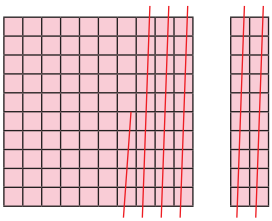

1,20 – 0,55 = 0,65

2 Los op. Je mag tussenstappen noteren.

0,35 + 0,30 = 0,65	1 + 0,25 = 1,25
0,60 + 0,15 = 0,75	0,75 + 0,25 = 1
0,35 + 0,4 = 0,75	0,80 + 0,3 = 1,1
0,50 + 0,5 = 1	1,25 + 0,20 = 1,45
0,75 – 0,40 = 0,35	1,75 – 0,50 = 1,25
0,90 – 0,25 = 0,65	1,80 – 0,45 = 1,35
0,85 – 0,2 = 0,65	1,60 – 1,25 = 0,35
1 – 0,50 = 0,5	1,25 – 0,30 = 0,95

naam: _____

1 **Los op.**

0,45 + 0,25 = 0,7	1,49 + 2 = 3,49
0,85 + 0,15 = 1	0,75 + 1,25 = 2
1 + 0,62 = 1,62	0,68 + 0,8 = 1,48
1,3 + 0,27 = 1,57	1,55 + 0,7 = 2,25
1,15 + 1,35 = 2,50 of 2,5	1,35 + 0,95 = 2,30 of 2,3
0,70 – 0,15 = 0,55	2,16 – 2 = 0,16
1 – 0,82 = 0,18	1,2 – 0,25 = 0,95
1,15 – 0,6 = 0,55	1,42 – 0,82 = 0,6
1,72 – 0,47 = 1,25	2,65 – 1,17 = 1,48
2 – 1,35 = 0,65	4 – 1,25 = 2,75

2 **Los op. Je mag tussenstappen noteren.**

1,75 + 1,4 + 1,25 = 3 + 1,4 = 4,4

6,45 – 1,85 – 1,45 = 5 – 1,85 = 3,15

2,6 + 0,74 + 1,26 = 2,6 + 2 = 4,6

5,1 – 2,95 – 0,15 = 5,1 – 3,1 = 2

4 – 3,76 + 0,6 = 0,24 + 0,6 = 0,84

naam: _____

die Keure

Los op. Controleer met de zakrekenmachine.

T	E	t		
6	7,	5	5	
5			T	E	t
1	7		1	3,	5
1	5				
	2	5			
	2	5			
		0			

H	T	E	t		
2	9	6,	1	3	
2	7			H	T	E	t
	2	6			9	8,	7
	2	4					
		2	1				
		2	1				
			0				

H	T	E	t		
7	4	8,	7	4	
4				H	T	E	t
3	4			1	8	7,	1
3	2						
	2	8					
	2	8					
		0	7				
			4				
			3				

De rest is 3 t of 0,3.

H	T	E	t		
4	0	9,	3	6	
3	6			H	T	E	t
	4	9			6	8,	2
	4	8					
		1	3				
		1	2				
			1				

De rest is 1 t of 0,1.

naam: _____

Noteer elke oefening netjes in het rooster.
Controleer of je uitkomst mogelijk is.

900,6 : 8 =

9	0	0,	6	8			
8				1	1	2,	5
1	0						
	8						
	2	0					
	1	6					
		4	6				
		4	0				
			6				

De rest is 6 t of 0,6.

245,9 : 9 =

2	4	5,	9	9			
1	8				2	7,	3
	6	5					
	6	3					
		2	9				
		2	7				
			2				

De rest is 2 t of 0,2.

1200,6 : 7 =

1	2	0	0,	6	7		
	7				171,5		
	5	0					
	4	9					
		1	0				
			7				
			3	6			
			3	5			
				1			

De rest is 1 t of 0,1.

9085,8 : 6 =

9	0	8	5,	8	6		
6					1514,3		
3	0						
3	0						
	0	8					
		6					
		2	5				
		2	4				
			1	8			
			1	8			
				0			

De rest is 0.

naam: _____

1 Kleur de buisjes van de thermometers of vul de temperatuur in. Los op.

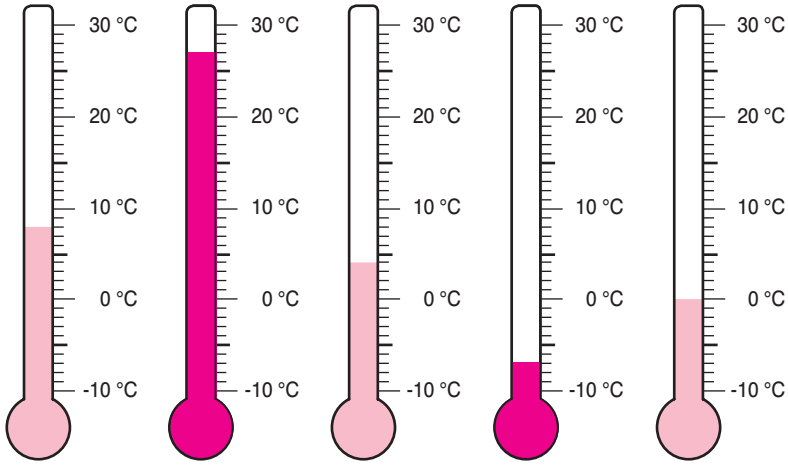

8 °C | 27 °C | 4 °C | -7 °C | 0 °C

- De hoogste temperatuur is _____27 °C_____.
- De laagste temperatuur is _____-7 °C_____.
- Het verschil tussen de hoogste en de laagste temperatuur is _____34 °C_____.

2 Lees en los op.

- In de klas is het 18 °C. De thermometer op de speelplaats wijst 9 °C minder aan.
  Op de speelplaats is het 9 °C.
- Op een warme zomerdag is het 19 °C in de schaduw en 32 °C in de zon.
  Het temperatuurverschil is 13 °C.

die Keure

naam: _____

Kijk goed en los de vragen op.

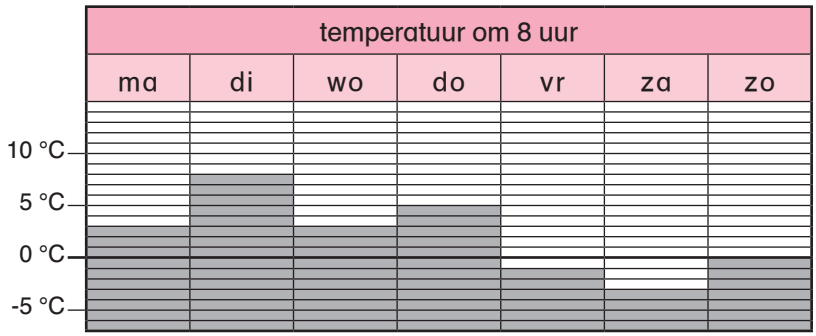

1 Hoeveel graden is het op dinsdag?

8 °C

2 Op welke dag is het 5 °C?

op donderdag

3 Noteer de laagste temperatuur van de week.

Op zaterdag is het -3 °C.

4 Noteer de hoogste temperatuur van de week.

Op dinsdag is het 8 °C.

5 Bereken het verschil tussen de hoogste en de laagste temperatuur van de week.

Het temperatuurverschil is 11 °C. (8 + 3 = 11)

naam: _____

die Keure

WEEK 18 LES 1

Breuken vergelijken en ordenen

KOMP@S

1 **Kleur het gevraagde deel.**
Vergelijk de breuken. Gebruik > of < of =.

$\frac{2}{5}$ < $\frac{3}{5}$

$\frac{3}{4}$ > $\frac{3}{5}$

$\frac{1}{3}$ = $\frac{2}{6}$

2 **Orden de breuken.**

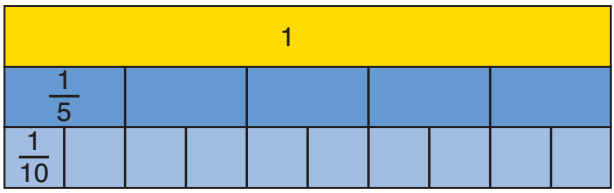

$\frac{5}{10}$ $\frac{1}{5}$ $\frac{3}{10}$ $\frac{2}{5}$ $\frac{1}{10}$

$\frac{1}{10} < \frac{1}{5} < \frac{3}{10} < \frac{2}{5} < \frac{5}{10}$

en

$\frac{5}{10} > \frac{2}{5} > \frac{3}{10} > \frac{1}{5} > \frac{1}{10}$

die Keure

naam: _____

WEEK 18 LES 1

Breuken vergelijken en ordenen

KOMPAS

1 **Vergelijk de breuken. Gebruik > of < of =.**

$\frac{2}{7} < \frac{4}{7}$	$\frac{3}{7} > \frac{3}{9}$	$\frac{2}{3} > \frac{1}{2}$
$\frac{5}{10} > \frac{3}{10}$	$\frac{5}{8} < \frac{5}{6}$	$\frac{1}{5} < \frac{3}{10}$
$\frac{1}{5} = \frac{2}{10}$	$\frac{1}{10} > \frac{1}{100}$	$\frac{2}{3} = \frac{4}{6}$

2 **Orden de breuken van klein naar groot. Gebruik > of < of =.**

$\frac{1}{2}$ $\frac{1}{5}$ $\frac{1}{10}$ $\frac{2}{5}$ $\frac{3}{10}$

$\frac{1}{10} < \frac{1}{5} < \frac{3}{10} < \frac{2}{5} < \frac{1}{2}$

3 **Vul aan.**

Als de noemers gelijk zijn:

hoe groter de teller, hoe _____groter_____ de breuk;

hoe kleiner de teller, hoe _____kleiner_____ de breuk.

Als de tellers gelijk zijn:

hoe kleiner de noemer, hoe _____groter_____ de breuk;

hoe groter de noemer, hoe _____kleiner_____ de breuk.

naam: _____

die Keure

WEEK 18 LES 2

Optellen, aftrekken, vermenigvuldigen en delen tot op 0,01

1 Los op.

5 x € 0,10 = € 0,50	2 x € 0,25 = € 0,50
2 x € 0,20 = € 0,40	3 x € 0,25 = € 0,75
4 x € 0,20 = € 0,80	4 x € 0,25 = € 1

2 Kijk en los op.



6 x 0,05 = 0,30 of 0,3



4 x 0,15 = 0,60 of 0,6

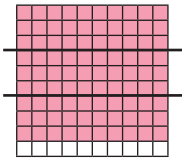

0,90 : 3 = 0,30 of 0,3

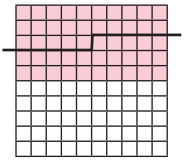

0,50 : 2 = 0,25

3 Los op.

0,25 + 0,12 = 0,37	0,80 – 0,15 = 0,65
0,35 + 0,5 = 0,85	1 – 0,25 = 0,75
0,75 + 0,25 = 1	1,45 – 0,15 = 1,30
1 + 0,75 = 1,75	1,90 – 1,45 = 0,45
1,25 + 1,30 = 2,55	1,25 – 1 = 0,25
2 x 0,01 = 0,02	0,10 : 2 = 0,05
5 x 0,03 = 0,15	0,25 : 5 = 0,05
10 x 0,05 = 0,50	0,80 : 10 = 0,08
4 x 0,06 = 0,24	0,20 : 4 = 0,05
100 x 0,01 = 1	1 : 100 = 0,01

naam: _____

1 Los op.

3 x € 0,75 = € 2,25

10 x € 2,25 = € 22,50

4 x € 0,95 = € 3,80

2 x € 3,65 = € 7,30

5 x € 1,45 = € 7,25

€ 3 : 2 = € 1,50

€ 3 : 5 = € 0,60

€ 5 : 4 = € 1,25

€ 75 : 10 = € 7,50

€ 75 : 100 = € 0,75

2 Los op.

1,25 + 1,9 + 1,75 = 3 + 1,9 = 4,9

7,45 – 2,15 – 4,3 = 7,45 – 6,45 = 1

2 x (0,6 + 0,85) = 2 x 1,45 = 2,90 of 2,9

(2,25 – 0,65) : 4 = 1,60 : 4 = 0,40 of 0,4

3 Vul de roosters in.

x	0,35	0,24	1,05	0,09
2	0,70 of 0,7	0,48	2,10 of 2,1	0,18
5	1,75	1,2	5,25	0,45
10	3,5	2,4	10,5	0,9
100	35	24	105	9
4	1,4	0,96	4,2	0,36

:	2	5	10	100
4	2	0,8	0,4	0,04
1	0,5	0,2	0,1	0,01
10	5	2	1	0,1
7	3,5	1,4	0,7	0,07
0,9	0,45	0,18	0,09	

naam: _____

die Keure

Los op en controleer je uitkomst met de zakrekenmachine.

	H	T	E	t	h
				1	
		1	8,	1	4
+		1	1,	2	7
		2	9,	4	1

	H	T	E	t	h
				8	16
		4	2,	9	6
−		2	1,	6	8
		2	1,	2	8

	H	T	E	t	h
		1		1	
		6	3,	2	5
+		1	7,	4	5
		8	0,	7	0

	H	T	E	t	h
		8	12	6	16
		9	2,	7	6
−		4	5,	2	8
		4	7,	4	8

	H	T	E	t	h
	1				
	1	4	5,	7	0
+		8	2,	2	5
	2	2	7,	9	5

	H	T	E	t	h
		8	12		
	1	9	2,	3	7
−		4	9,	2	0
	1	4	3,	1	7

	H	T	E	t	h
	1	0	8,	3	5
+	1	4	1,	6	0
	2	4	9,	9	5

	H	T	E	t	h
			5	12	
	1	8	6,	2	9
−	1	0	5,	4	2
		8	0,	8	7

	H	T	E	t	h
			1		
	2	1	4,	6	3
+	1	6	2,	7	5
	3	7	7,	3	8

	H	T	E	t	h
		4	11	6	13
	2	5	1,	7	3
−		2	9,	1	6
	2	2	2,	5	7

	H	T	E	t	h
	1				
	3	5	0,	6	0
+		9	4,	2	8
	4	4	4,	8	8

	H	T	E	t	h
		7	14		
	2	8	4,	6	9
−	1	2	5,	3	0
	1	5	9,	3	9

	1	1			
	2	7	1,	4	6
+	1	2	9,	3	0
	4	0	0,	7	6

		7	15	11	
	3	8	6,	1	7
−	1	2	8,	3	0
	2	5	7,	8	7

	1	1			
	4	1	6,	5	0
+		8	7,	2	8
	5	0	3,	7	8

				5	10
	3	4	7,	6	0
−	1	2	4,	3	5
	2	2	3,	2	5

die Keure

naam: _____

1 **Schik de bewerking in het rooster. Los op. Controleer met de zakrekenmachine.**

78,16 + 39,75 =

	H	T	E	t	h
	1	1		1	
		7	8,	1	6
+		3	9,	7	5
	1	1	7,	9	1

94,27 – 51,89 =

	H	T	E	t	h
			3	11	17
		9	4,	2	7
–		5	1,	8	9
		4	2,	3	8

178,47 + 119,68 =

	H	T	E	t	h
		1	1	1	
	1	7	8,	4	7
+	1	1	9,	6	8
	2	9	8,	1	5

184,07 – 146,32 =

	H	T	E	t	h
		7	13	10	
	1	8	4,	0	7
–	1	4	6,	3	2
		3	7,	7	5

159,7 + 85,36 =

	1	1	1		
	1	5	9,	7	0
+		8	5,	3	6
	2	4	5,	0	6

240,34 – 76,8 =

	1	13	9	13	
	2	4	0,	3	4
–		7	6,	8	0
	1	6	3,	5	4

407,35 + 98,7 =

	1	1	1		
	4	0	7,	3	5
+		9	8,	7	0
	5	0	6,	0	5

534,8 – 85,26 =

	4	12	14	7	10
	5	3	4,	8	0
–		8	5,	2	6
	4	4	9,	5	4

2 **Lees, noteer de oefening in het rooster en los op.**

a De som van 635,07 en 298,6 is ___933,67___.

b Het verschil van 900 en 348,15 is ___551,85___.

c Verminder 249,7 met 192,38. Dat is ___57,32___.

d Vermeerder 674 met 209,55. Dat is ___883,55___.

a

	1	1			
	6	3	5,	0	7
+	2	9	8,	6	0
	9	3	3,	6	7

b

	8	9	9	9	10
	9	0	0,	0	0
–	3	4	8,	1	5
	5	5	1,	8	5

c

	1	14		6	10
	2	4	9,	7	0
–	1	9	2,	3	8
		5	7,	3	2

d

		1			
	6	7	4,	0	0
+	2	0	9,	5	5
	8	8	3,	5	5

naam: _____

die Keure

1 Kijk en vul aan.



1 kg = 4 x $\frac{1}{4}$ kg

1 kg = 4 x 250 g

1 kg = 1000 g

2 Vul in.

500 g = $\frac{1}{2}$ kg

2 x $\frac{1}{2}$ kg = 1 kg

$\frac{1}{10}$ kg = 100 g

$\frac{7}{10}$ kg = 700 g

1 kg = 2 x $\frac{1}{2}$ kg = 4 x $\frac{1}{4}$ kg = 10 x $\frac{1}{10}$ kg

3 Los op.

900 g + 100 g = 1 kg

200 g + 50 g = 1/4 kg

400 g + 100 g = 1/2 kg

600 g – 100 g = 1/2 kg

350 g – 100 g = 1/4 kg

1200 g – 200 g = 1 kg

4 Vul aan.

1000 kg = 1 ton

500 kg = $\frac{1}{2}$ ton

250 kg = $\frac{1}{4}$ ton

100 kg = $\frac{1}{10}$ ton

$\frac{1}{5}$ ton = 200 kg

$\frac{1}{4}$ ton = 250 kg

naam: _____

1 Vul aan.

3 kg = 6 x $\frac{1}{2}$ kg = 12 x $\frac{1}{4}$ kg

6 x $\frac{1}{4}$ kg = 6 x 250 g = 1500 g = anderhalve kg

De helft van 500 g is 250 g.

750 g is 250 g zwaarder dan 1/2 kg.

250 g is 750 g lichter dan 1 kg.

2 Los op.

1/4 kg + 1/10 kg = 250 g + 100 g = 350 g

3/4 kg + 250 g = 1 kg

7/10 kg + 300 g = 1 kg

anderhalve kg = 750 g + 750 g

1 kg – 1/4 kg = 750 g

3/4 kg – 2/10 kg = 750 g – 200 g = 550 g

3 Vul aan.

anderhalve ton = 1500 kg

1/4 ton + 1/2 ton = 750 kg

1/10 ton + 900 kg = 1 ton

3/4 ton – 250 kg = 1/2 ton

naam: _____

die Keure

1 **Zet een kruisje in elke driehoek.**

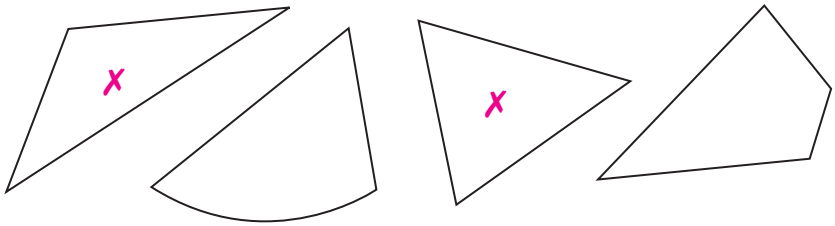

2 **Kleur de rechthoekige driehoek.**

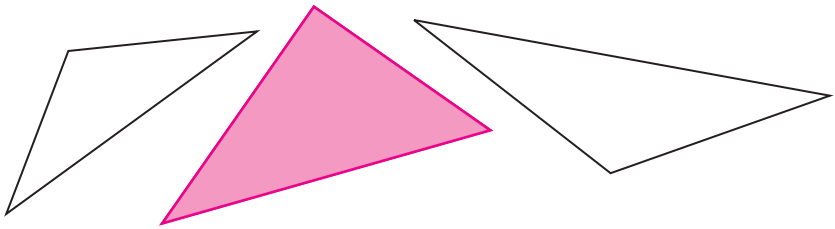

3 **Kleur de gelijkbenige driehoek.**



naam: _____

Zet een kruisje in de gelijkzijdige driehoek.
Kleur de driehoek die gelijkbenig en rechthoekig is.



naam: _____

die Keure

WEEK 19 LES 1

Gelijkwaardige breuken

KOMP@S

1 **Kleur en vul aan.**

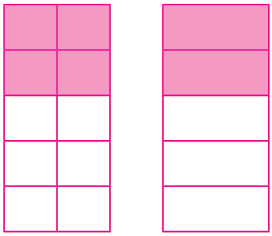

$\frac{4}{10} = \frac{2}{5}$

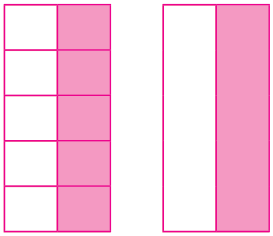

$\frac{5}{10} = \frac{1}{2}$

$\frac{2}{10} = \frac{1}{5}$

$\frac{6}{10} = \frac{3}{5}$

$\frac{10}{10} = \frac{2}{2}$

2 **Kijk goed en vul aan.**

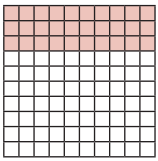

$\frac{30}{100} = \frac{3}{10}$

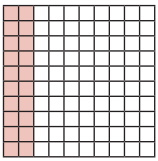

$\frac{2}{10} = \frac{20}{100}$

3 **Vul de breuken aan.**

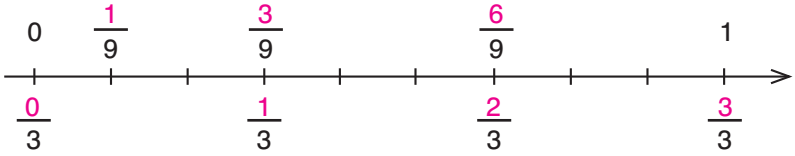

4 **Vul in.**

$\frac{1}{2} = \frac{4}{8}$

$\frac{1}{4} = \frac{2}{8}$

$\frac{1}{3} = \frac{2}{6}$

$\frac{1}{3} = \frac{3}{9}$

$\frac{2}{5} = \frac{4}{10}$

$\frac{4}{6} = \frac{2}{3}$

die Keure

naam: _____

WEEK 19 LES 1

Gelijkwaardige breuken

KOMPAS

1 **Kijk goed en vul aan.**

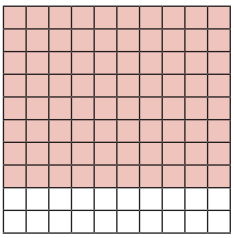

$\frac{80}{100} = \frac{8}{10} = \frac{4}{5}$

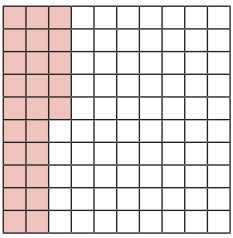

$\frac{25}{100} = \frac{1}{4}$

2 **Plaats de breuken op de getallenas.**

$\frac{2}{3}$ $\frac{2}{6}$ $\frac{4}{6}$ $\frac{1}{3}$

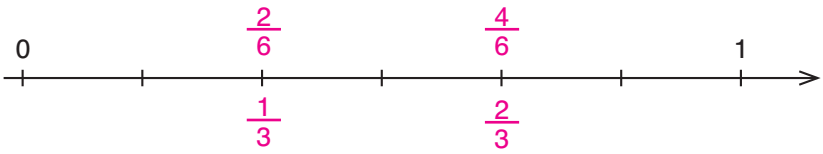

3 **Vul in.**

$\frac{8}{20} = \frac{4}{10} = \frac{2}{5}$

$\frac{12}{15} = \frac{4}{5} = \frac{8}{10}$

$\frac{10}{16} = \frac{5}{8} = \frac{25}{40}$

$\frac{75}{100} = \frac{3}{4} = \frac{15}{20}$

$\frac{24}{28} = \frac{6}{7} = \frac{30}{35}$

$\frac{5}{35} = \frac{1}{7} = \frac{8}{56}$

$\frac{18}{20} = \frac{9}{10} = \frac{45}{50}$

$\frac{28}{40} = \frac{14}{20} = \frac{7}{10}$

$\frac{35}{50} = \frac{7}{10} = \frac{21}{30}$

$\frac{24}{36} = \frac{6}{9} = \frac{2}{3}$

naam: _____

die Keure

1 **Kijk goed en los op.**

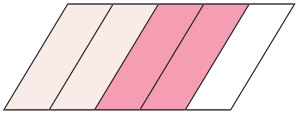

$\frac{2}{5} + \frac{2}{5} = \frac{4}{5}$

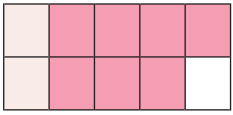

$\frac{2}{10} + \frac{7}{10} = \frac{9}{10}$

2 **Los op.**

$\frac{1}{3} + \frac{1}{3} = \frac{2}{3}$

$\frac{1}{4} + \frac{2}{4} = \frac{3}{4}$

$\frac{2}{5} + \frac{2}{5} = \frac{4}{5}$

$\frac{3}{6} + \frac{2}{6} = \frac{5}{6}$

$\frac{2}{7} + \frac{1}{7} = \frac{3}{7}$

$\frac{4}{10} + \frac{3}{10} = \frac{7}{10}$

3 **Los op. Vereenvoudig waar het kan.**

$\frac{3}{8} + \frac{5}{8} = \frac{8}{8} = 1$

$\frac{3}{4} + \frac{2}{4} = \frac{5}{4} = 1$ en $\frac{1}{4}$

$\frac{1}{6} + \frac{1}{6} + \frac{2}{6} = \frac{4}{6} = \frac{2}{3}$

$\frac{2}{10} + \frac{3}{10} + \frac{3}{10} = \frac{8}{10} = \frac{4}{5}$

die Keure

naam: _____

1 **Los op.**

$\frac{4}{9} + \frac{4}{9} = \frac{8}{9}$

$\frac{10}{20} + \frac{7}{20} = \frac{17}{20}$

$\frac{5}{12} + \frac{6}{12} = \frac{11}{12}$

$\frac{25}{100} + \frac{50}{100} = \frac{75}{100} = \frac{3}{4}$

2 **Los op. Vereenvoudig waar het kan.**

$\frac{4}{15} + \frac{5}{15} + \frac{6}{15} = \frac{15}{15} = 1$

$\frac{4}{9} + \frac{4}{9} + \frac{4}{9} = \frac{12}{9} = \frac{4}{3} = 1$ en $\frac{1}{3}$

$\frac{5}{20} + \frac{10}{20} + \frac{15}{20} = \frac{30}{20} = \frac{3}{2} = 1$ en $\frac{1}{2}$

$\frac{6}{8} + \frac{6}{8} + \frac{6}{8} = \frac{18}{8} = \frac{9}{4} = 2$ en $\frac{1}{4}$

3 **Los op.**

$\frac{4}{12} + \frac{8}{12} = 1$

$\frac{18}{25} + \frac{7}{25} = 1$

$\frac{7}{20} + \frac{13}{20} = 1$

$\frac{45}{50} + \frac{5}{50} = 1$

$\frac{35}{100} + \frac{65}{100} = 1$

$\frac{1}{100} + \frac{99}{100} = 1$

naam: _____

die Keure

WEEK 19 LES 3

Vermenigvuldigen tot op 0,01

KOMP@S

Los op en controleer je uitkomst met de zakrekenmachine.

			0,	4	8	
					3	
x			1,	4	4	~~2~~ ~~1~~

			1,	2	4	
					4	
x			4,	9	6	~~1~~

			1,	7	5	
					6	
x		1	0,	5	0	~~3~~ ~~4~~ ~~1~~

			2,	0	9	
					5	
x		1	0,	4	5	~~4~~ ~~1~~

			2,	4	0	
					8	
x		1	9,	2	0	~~3~~ ~~1~~

			3,	2	5	
					7	
x		2	2,	7	5	~~3~~ ~~1~~ ~~2~~

			6,	2	3	
					9	
x		5	6,	0	7	~~2~~ ~~2~~ ~~5~~

			9,	4	8	
					6	
x		5	6,	8	8	~~4~~ ~~2~~ ~~5~~

		1	0,	3	4	
					4	
x		4	1,	3	6	~~1~~ ~~1~~

		1	4,	9	6	
					8	
x	1	1	9,	6	8	~~4~~ ~~7~~ ~~3~~ ~~1~~

		2	1,	7	4	
					7	
x	1	5	2,	1	8	~~2~~ ~~5~~ ~~1~~ ~~1~~

		2	8,	6	0	
					5	
x	1	4	3,	0	0	~~3~~ ~~4~~ ~~1~~

			2,	0	8	
				1	1	
x			2	0	8	
		2	0	8		
		2	2,	8	8	

			6,	7	9	
				1	4	
x		2	7	1	6	~~3~~ ~~3~~ ~~2~~
		6	7	9		
		9	5,	0	6	~~1~~ ~~1~~

			9,	5	7	
				1	8	
x		7	6	5	6	~~5~~ ~~4~~ ~~7~~
		9	5	7		
	1	7	2,	2	6	~~1~~ ~~1~~ ~~1~~

naam: _____

1 **Schik de bewerking netjes in het rooster. Los op. Controleer met de zakrekenmachine.**

9 x 87,96 =

	8	7,	9	6
				9
x				
7	9	1,	6	4

8 x 90,78 =

	9	0,	7	8
				8
x				
7	2	6,	2	4

60 x 9,08 =

		9,	0	8
			6	0
x				
5	4	4,	8	0

39 x 8,67 =

		8,	6	7
			3	9
x				
	7	8	0	3
2	6	0	1	
3	3	8,	1	3

78 x 6,09 =

		6,	0	9
			7	8
x				
	4	8	7	2
4	2	6	3	
4	7	5,	0	2

24 x 34,69 =

	3	4,	6	9
			2	4
x				
1	3	8	7	6
6	9	3	8	
8	3	2,	5	6

2 **Lees en noteer de oefening in het rooster. Los op.**

a Het product van de getallen 89 en 7,98 is 710,22.

b 76 keer 8,09 is 614,84.

c Vermenigvuldig 6,49 met 96. Je krijgt dan 623,04.

a

		7,	9	8
			8	9
x				
	7	1	8	2
6	3	8	4	
7	1	0,	2	2

b

		8,	0	9
			7	6
x				
	4	8	5	4
5	6	6	3	
6	1	4,	8	4

c

		6,	4	9
			9	6
x				
	3	8	9	4
5	8	4	1	
6	2	3,	0	4

naam: _____

die Keure

1 **Betaal gepast met zo weinig mogelijk biljetten en munten.**

€ 14,95

Ik betaal met een biljet van 10 euro en

met de munten 2 x 2 euro

1 x 50 cent

2 x 20 cent en 1 x 5 cent.

2 **Lees en los op.**

Juf koopt voor de klasbib 5 boeken.
Ze betaalt er 71,35 euro voor.
Hoeveel krijgt ze terug van 100 euro?

100 euro – 71,35 euro = 29 euro – 35 cent = 28,65 euro

Welke munten en biljetten (zo weinig mogelijk) krijgt ze terug? 1 x 20 euro / 1 x 5 euro / 1 x 2 euro

1 x 1 euro / 1 x 50 cent / 1 x 10 cent / 1 x 5 cent

3 **Wisselen! Vul aan.**

20 euro is	2	x	10 euro	10 euro is	2	x	5 euro
of	4	x	5 euro	of	5	x	2 euro
of	10	x	2 euro	of	10	x	1 euro
of	20	x	1 euro.	of	20	x	50 cent.

naam: _____

1 Lees en los op.

Een klant moet 87,85 euro betalen en betaalt met een biljet van 200 euro.

→ Bereken welk bedrag je moet teruggeven en noteer hoe je dat doet met zo weinig mogelijk munten en biljetten.

B 200 euro – 87,85 euro = 112,15 euro

T 1 x 100 euro / 1 x 10 euro

A 1 x 2 euro / 1 x 10 cent / 1 x 5 cent

→ Geef terug op de manier van doorbetalen.

€ 87,85 + 5 cent + 10 cent + 2 euro + 10 euro + 100 euro = 200 euro

2 Vul het rooster aan.

x			
	€ 4,50	€ 9,75	€ 45,80
2	€ 9	€ 19,50	€ 91,60
10	€ 45	€ 97,50	€ 458
4	€ 18	€ 39	€ 183,20
100	€ 450	€ 975	€ 4580

naam: _____

die Keure

1 **Vul deze rechte hoek aan tot een driehoek die gelijkbenig is.**

bv.

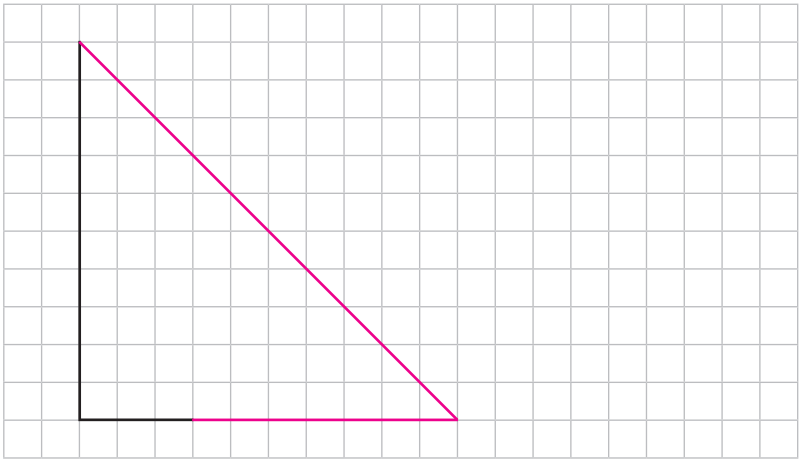

2 **Teken een driehoek waarvan de 3 zijden een verschillende lengte hebben. Vul aan.**

bv.

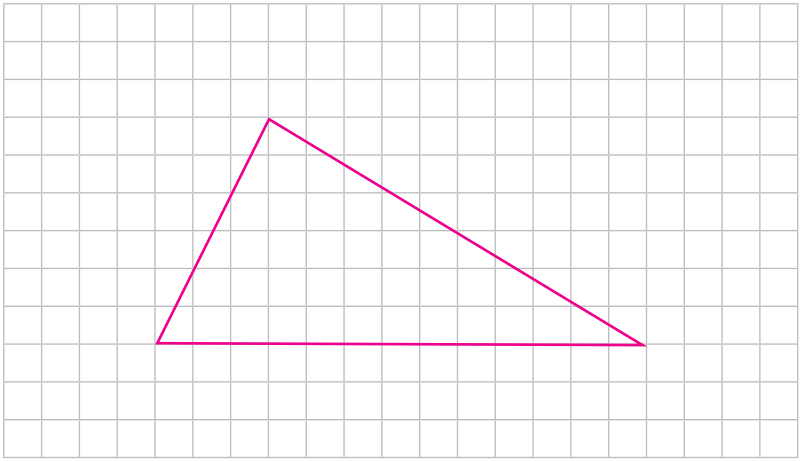

Deze driehoek is een ongelijkzijdige/ongelijkbenige driehoek.

die Keure

naam: _____

1 **Teken een gelijkbenige driehoek die stomphoekig is.**

bv.

2 **Teken een rechthoekige driehoek die gelijkbenig is.**

bv.



naam: _____

die Keure

1 **Vul de rijtjes aan.**

0	10 000	20 000	30 000	40 000
100 000	95 000	90 000	85 000	80 000
0	0,2	0,4	0,6	0,8
0	0,5	1	1,5	2

2 **Rangschik de getallen van groot naar klein. Gebruik > of <.**

1,75 0,25 7,5 0,04 5 0,3

7,5 > 5 > 1,75 > 0,3 > 0,25 > 0,04

3 **Vul aan.**

De helft van 1 is $\frac{1}{2}$ of 0,5.

Het dubbel van 2,5 is 5.

0,2 minder dan 1 is 0,8.

2 keer 0,4 is 0,8.

0,25 meer dan 0,75 is 1.

0,25 is $\frac{1}{4}$ van 1.

4 **Vergelijk de getallen. Gebruik > of < of =.**

0,5 < 1,5 | 1,4 > $\frac{1}{4}$ | $\frac{25}{100}$ = 0,25

5 **Vul aan.**

$\frac{1}{2} = \frac{2}{4}$ | $\frac{1}{3} = \frac{3}{9}$ | $\frac{1}{5} = \frac{2}{10}$ | $\frac{3}{4} = \frac{6}{8}$

die Keure

naam: _____

WEEK 20 LES 1

Herhaling

KOMP@S

1 **Vul de rijtjes aan.**

4800	5200	5600	6000	6400
55 200	54 900	54 600	54 300	54 000
0	0,15	0,30	0,45	0,60
4,2	3,85	3,5	3,15	2,8

2 **Rangschik de getallen van groot naar klein. Gebruik > of <.**

2,25 | 1 en $\frac{3}{4}$ | 1,45 | 1,5 | 2 en $\frac{1}{5}$

2,25 > 2 en $\frac{1}{5}$ > 1 en $\frac{3}{4}$ > 1,5 > 1,45

3 **Vul aan.**

De helft van 1,7 is 0,85.

Het dubbel van 0,65 is 1,3.

0,15 minder dan 1 is 0,85.

0,35 meer dan 0,8 is 1,15.

4 keer 0,45 is 1,8.

1/4 van 1,4 is 0,35.

4 **Vergelijk de getallen. Gebruik > of < of =.**

4,25 > 1,95 | $\frac{3}{5}$ < 0,75 | 1 en $\frac{4}{5}$ > 1 en $\frac{7}{10}$

5 **Vul aan.**

$\frac{4}{5} = \frac{8}{10}$ | $\frac{3}{2} = \frac{9}{6}$ | $\frac{2}{8} = \frac{1}{4}$ | $\frac{7}{4}$ = 1 en $\frac{3}{4}$

naam: _____

die Keure

1 **Kijk goed en los op.**

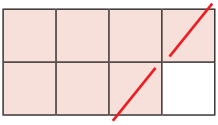

$\frac{7}{8} - \frac{2}{8} = \frac{5}{8}$

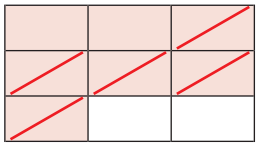

$\frac{7}{9} - \frac{5}{9} = \frac{2}{9}$

2 **Los op.**

$\frac{3}{4} - \frac{2}{4} = \frac{1}{4}$

$\frac{3}{5} - \frac{1}{5} = \frac{2}{5}$

$\frac{6}{7} - \frac{3}{7} = \frac{3}{7}$

$\frac{9}{10} - \frac{6}{10} = \frac{3}{10}$

$\frac{6}{6} - \frac{1}{6} = \frac{5}{6}$

$\frac{5}{8} - \frac{4}{8} = \frac{1}{8}$

3 **Los op. Vereenvoudig waar het kan.**

$\frac{9}{10} - \frac{3}{10} = \frac{6}{10} = \frac{3}{5}$

$\frac{5}{6} - \frac{1}{6} = \frac{4}{6} = \frac{2}{3}$

$\frac{12}{10} - \frac{4}{10} - \frac{3}{10} = \frac{5}{10} = \frac{1}{2}$

$\frac{17}{10} - \frac{4}{10} = \frac{13}{10} = 1 \text{ en } \frac{3}{10}$

die Keure

naam: _____

1 **Los op.**

$\frac{7}{9} - \frac{3}{9} = \frac{4}{9}$

$\frac{7}{10} - \frac{2}{10} = \frac{5}{10} = \frac{1}{2}$

$\frac{7}{4} - \frac{3}{4} = \frac{4}{4} = 1$

$\frac{13}{5} - \frac{4}{5} = \frac{9}{5} = 1 \text{ en } \frac{4}{5}$

2 **Los op.**

$\frac{18}{25} - \frac{2}{25} - \frac{6}{25} = \frac{10}{25} = \frac{2}{5}$

$\frac{17}{10} - \frac{3}{10} - \frac{4}{10} = \frac{10}{10} = 1$

$\frac{15}{8} - \frac{1}{8} - \frac{2}{8} = \frac{12}{8} = \frac{3}{2} = 1 \text{ en } \frac{1}{2}$

$\frac{75}{100} - \frac{15}{100} - \frac{10}{100} = \frac{50}{100} = \frac{1}{2}$

3 **Los op.**

$\frac{9}{8} - \frac{1}{8} = 1$

$\frac{7}{4} - \frac{3}{4} = 1$

$\frac{10}{7} - \frac{3}{7} = 1$

$1 \text{ en } \frac{2}{5} - \frac{2}{5} = 1$

$1 \text{ en } \frac{5}{6} - \frac{5}{6} = 1$

$2 \text{ en } \frac{3}{4} - \frac{3}{4} = 2$

naam: _____

die Keure

Los op. Controleer met de zakrekenmachine.

E	t	h		
8,	7	5	5	
5			E	t h
3	7		1,	7 5
3	5			
	2	5		
_	2	5		
		0		

T	E	t	h		
2	6,	7	2	4	
2	4			T	E t h
	2	7			6, 6 8
_	2	4			
		3	2		
	_	3	2		
			0		

T	E	t	h		
9	3,	7	5	6	
6				T	E t h
3	3			1	5, 6 2
3	0				
	3	7			
_	3	6			
		1	5		
	_	1	2		
			3		

De rest is 3 h of 0,03.

H	T	E	t	h		
1	0	2,	3	9	7	
	7				T	E t h
	3	2			1	4, 6 2
_	2	8				
		4	3			
	_	4	2			
			1	9		
		_	1	4		
				5		

De rest is 5 h of 0,05.

naam: _____

Noteer elke oefening netjes in het rooster. Deel tot op 0,01. Controleer of je uitkomst mogelijk is.

70,06 : 6 =

7	0,	0	6	6	
6				1	1, 6 7
1	0				
	6				
	4	0			
	3	6			
		4	6		
		4	2		
			4		

De rest is 4 h of 0,04.

342,7 : 8 =

3	4	2,	7	0	8
3	2				4 2, 8 3
	2	2			
	1	6			
		6	7		
		6	4		
			3	0	
			2	4	
				6	

De rest is 6 h of 0,06.

500 : 9 =

5	0	0,	0	0	9
4	5				5 5, 5 5
	5	0			
	4	5			
		5	0		
		4	5		
			5	0	
			4	5	
				5	

De rest is 5 h of 0,05.

1273,08 : 7 =

1	2	7	3,	0	8	7
	7					1 8 1, 8 6
	5	7				
	5	6				
		1	3			
			7			
			6	0		
			5	6		
				4	8	
				4	2	
					6	

De rest is 6 h of 0,06.

naam: _____

Los op.

1

1/2 km = 500 m

3 m = 300 cm

75 cm = 7 dm en 5 cm

800 mm = 80 cm = 8 dm

2

6 x 50 cl = 300 cl

= 30 dl

= 3 l

250 ml = 25 cl

25 cl = $\frac{1}{4}$ l

1/10 l = 1 dl

1 dl = 10 cl

1 dl = 100 ml

3

1/2 kg = 500 g

1/4 kg + 250 g = 1/2 kg

1 ton = 1000 kg

1/5 ton = 200 kg

4

Betaal € 2,75 met zo weinig mogelijk munten.

2 euro + 50 cent + 20 cent + 5 cent

5

1 uur = 60 minuten = 3600 seconden

1 kwartier = 15 minuten = 900 seconden

120 seconden = 2 minuten

6

Het verschil tussen 17 °C en 8 °C is 9 °C.

Het verschil tussen 0 °C en 24 °C is 24 °C.

Het verschil tussen -5 °C en 5 °C is 10 °C.

die Keure

naam: _____

Los op.

1

0,5 km = 500 m	85 mm + 1,5 cm = 1 dm
0,45 m = 45 cm	2 dm – 50 mm = 15 cm

2

3/4 l = 75 cl	80 cl + 200 ml = 1 l
0,3 l = 3 dl = 30 cl	3 dl – 5 cl = 250 ml

3

1/4 ton + 750 kg = 1 ton	1 kg – 3/5 kg = 400 g
250 g + $\frac{3}{4}$ kg = 1 kg	5 x 50 g = 1/4 kg

4 Geef terug van 200 euro met zo weinig mogelijk munten en biljetten. Te betalen: € 127,85. → nog 72,15 euro terug

Ik geef terug: biljetten → 50 euro + 20 euro

munten → 2 euro + 10 cent + 5 cent

5

3 kwartier = 45 minuten = 2700 seconden

300 seconden = 5 minuten

48 minuten en 25 seconden + 11 minuten en 35 seconden = 1 uur

6 Als het buiten -4 °C is en binnen is de temperatuur 23 °C hoger, dan is het binnen 19 °C warm.

7 Luca fietst 36 km in anderhalf uur.
Hoeveel is zijn gemiddelde snelheid per uur?

36 km in 1,5 uur → 12 km in een half uur

dus 24 km/uur gemiddeld

naam: _____

die Keure